AYUDA A ITZAMNÁ A COMPLETAR EL CRUCIGRAMA

Ayuda a Itzamná a encontrar las respuestas con la ayuda de la ficha informativa del tapir en la página web del Centro de Datos para la Conservación (CDC)

http://cdc.usac.edu.gt/?page_id=836

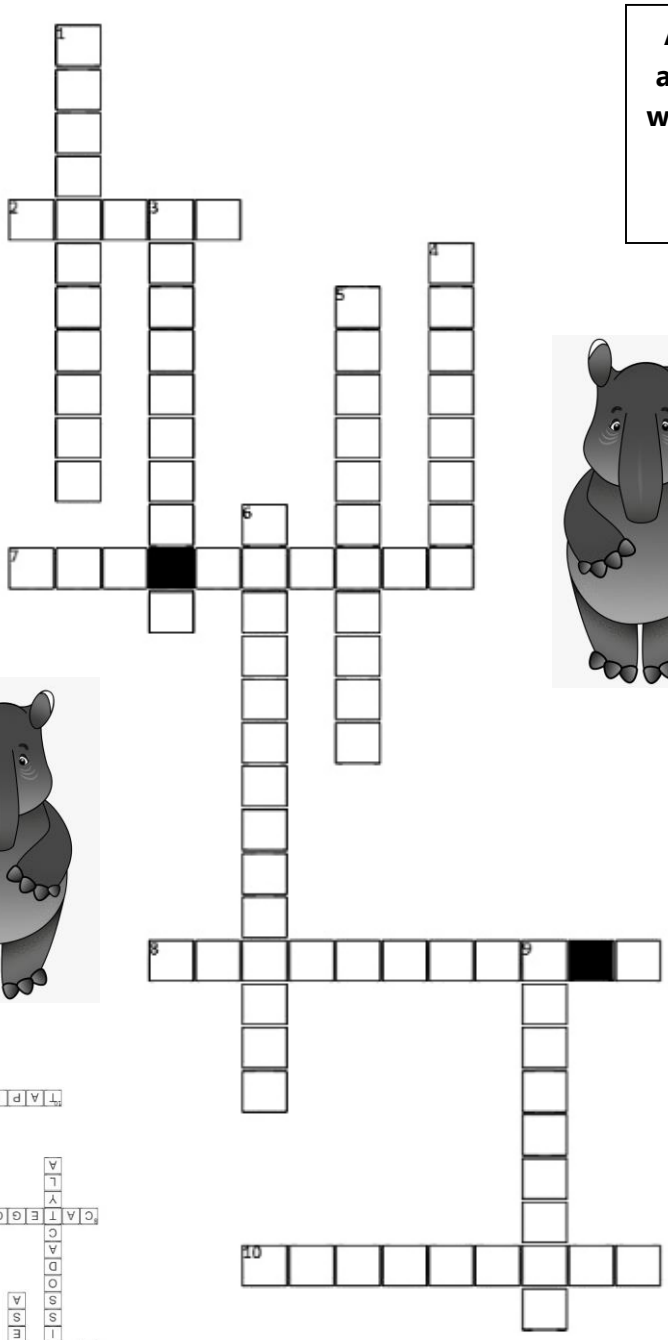



Horizontales

2. ¿De qué se alimenta principalmente el Tapir?

7. ¿Cuánto llegan a medir los tapires?

8. Según la LEA ¿En qué categoría esta?

10. Familia a la que pertenece el tapir

Verticales

1. Es un importante dispersor de semillas de…

3. ¿Cuál es su categoría según CITES?

4. Es un importante dispersor de…

5. A que se refiere cuando dicen que una persona tiene cuero de danto

6. ¿En qué orden se clasifica el tapir?

9. ¿Cuál es su categoría según la UICN?

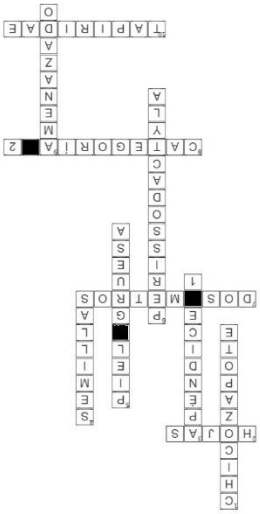

Elaborado por: José Tun EPS-Biología